සියලු ම හිමිකම් ඇවිරිණි / All Rights Reserved

වයඹ පළාත් අධ්‍යාපන දෙපාර්තමේන්තුව
Provincial Department of Education - NWP

පෙරහුරු පරීක්ෂණය - 13 ශ්‍රේණිය - 2022
Practice Test - Grade 13 - 2022

ජීව විද්‍යාව - I

09 S I

කාලය: පැය දෙකයි.

විභාග අංකය: ....

- නිවැරදි හෝ ඉතාමත් ගැළපෙන හෝ පිළිතුර තෝරාගෙන එය උත්තර පත්‍රයේ උපදෙස් පරිදි අදාළ නිවැරදි අංකය මත කතිරයක් යොදා දක්වන්න.

01. ජීවියෙකුගේ ජීවිත කාලය තුළදී සිදුවන අනුගාමී ක්‍රියාවලි දෙකක් වන්නේ පහත කවරක්ද?
    1. ක්‍රමවත් බව හා සංවිධානය 2. උද්දීප්‍යතාව හා සමායෝජනය 3. වර්ධනය හා විකසනය
    4. ආවේණිය හා පරිණාමය 5. අනුවර්තනය හා පරිණාමය

02. කුඩා කෘමියෙකුට පොකුණක ජල පෘෂ්ඨය මත ඇවිදීමට උපකාරීවන ජලයේ ගුණාංගය වන්නේ කුමක්ද?
    1. අඩු දුස්ස්‍රාවිතාව 2. උෂ්ණත්වය මධ්‍යස්ථ කිරීමට ඇති හැකියාව
    3. ද්‍රාවකයක් ලෙස සර්ව නිපුණත්වය 4. ජලයේ සංසක්ති හැසිරීම
    5. හිමායනයේදී අසමාකාර ප්‍රසාරණය

03. සෛලයක උප සෛලීය සංඝටක සම්බන්ධයෙන් පහත ප්‍රකාශ අතරින් නිවැරදි වන්නේ කුමක්ද?
    1. සෑම විටකම සයිටොසොලයේ දක්නට ලැබේ.
    2. සියලුම ව්‍යුහයන් පටලවලින් වට වී ඇත.
    3. සමහර උප සෛලීය සංඝටකයන්ගේ විශාලත්වය 0.2 μm ට වඩා වැඩිය.
    4. සියලුම උප සෛලීය සංඝටක ඉන්ද්‍රියිකාය.
    5. මෙම උප සෛලීය සංඝටක ප්‍රාග් න්‍යෂ්ටික සෛලවල නැත.

04. ග්ලැක්ටොයුරොනික් අම්ලය බහුඅවයවීකරණය වී තැනෙන පොලිසැකරයිඩය ප්‍රධාන සංඝටකය ලෙස ක්‍රියා කරන්නේ මින් කවරකද?
    1. දිලීර සෛල බිත්තිය 2. ප්‍රාථමික සෛල බිත්තිය 3. ද්විතික සෛල බිත්තිය
    4. ප්ලාස්ම පටලය 5. මධ්‍ය සුස්තරය

05. සිසුවෙක් විසින් සජීව පදාර්ථයේ ඇති කාබනික සංයෝග කිහිපයක් සම්බන්ධව ඉදිරිපත් කර ඇති ප්‍රකාශ කිහිපයක් පහත දැක්වේ.
    A එකිනෙකට වෙනස් නියුක්ලියෝටයිඩ ආකාර පහක් DNA වල ඇත.
    B සමහර විටක RNA අනු අතර අනුපූරක භෂ්ම යුගලනය වේ.
    C $95^{0}C$ දී DNA දුස්සාවිභාවිකරණය වේ.
    D DNA හි ප්‍රවේණි කේතය ත්‍රිත්ව කේතයක් වේ.
    E කිසිම විටක RNA මගින් DNA කේත කළ නොහැක.

    මෙම ප්‍රකාශ අතර අසත්‍යය ප්‍රකාශ වන්නේ කවර ඒවාද?
    1. ABE 2. AE 3. ACD 4. DE 5. ADE

22 A/L අපි [papers group]

06. පිෂ්ඨ ද්‍රාවණයක් ඇමයිලේස් ද්‍රාවණයක් සමඟ මිශ්‍ර කරන ලදී. යම් කාලයක් තබා මාධ්‍යය තුළ පිෂ්ඨය නොමැති බව තහවුරු කිරීමට භාවිතා කළ හැකි ප්‍රතිකාරකය හා අවසානයේදී මිශ්‍රණයේ වර්ණය දැක්වෙන නිවැරදි ප්‍රකාශය කුමක්ද?

1. බෙනඩික් ද්‍රාවණය - ගඩොල් රතු
2. බෙනඩික් ද්‍රාවණය - නිල්
3. බයියුරේට් ද්‍රාවණය - නිල්
4. I_2/ KI (අයඩින් ද්‍රාවණය) - කහ, දුඹුරු
5. I_2/ KI (අයඩින් ද්‍රාවණය) - නිල්, කළු

07. පහත දී ඇති ඇත්තේ සෛලයක විභාජන අවධියක් පෙන්වන රූපසටහනකි.



මේ සම්බන්ධව දී ඇති ප්‍රකාශ අතර නොගැලපෙන ප්‍රකාශය තෝරන්න.

1. මෙය යෝග කලා I ගතකරන ශාක සෛලයකි.
2. මෙම සෛලයේ සම ප්‍රභව වර්ණදේහ කට්ටල 3ක් වේ.
3. මෙම කලාවෙන් පසුව වර්ණදේහ සෛලයේ ප්‍රතිවිරුද්ධ ධ්‍රැව වෙත ළඟා වේ.
4. මෙම සෛලය DNA අනු 12ක් දරයි.
5. වර්ණ දේහයක කයිනටකෝ එකම ධ්‍රැව වෙත බැඳී ඇත.

08. පහත දී ඇති ක්‍රියා/ සිදුවීම් කවරක් සෛලයක මයිටොකොන්ඩ්‍රියම තුළ පමණක් සිදු වේද?

A එන්සයිම උත්ප්‍රේරිත ජල විච්ඡේදනය.
B FAD ඔක්සිහරණය
C ඉලෙක්ට්‍රෝන වාහක ශ්‍රේණිය ක්‍රියාත්මක වීම
D RUBP ඔක්සිකරණය
E පයිරුවේට් ඔක්සිකරණය

1. ABE
2. BCE
3. B හා E
4. C, D
5. C, E

09. ජෛව රසායනික පරිණාම වාදයෙහි පියවරක් නොවන්නේ පහත කවරක්ද?

1. කුඩා කාබනික අණුවල ජෛව සංශ්ලේෂණය
2. කාබනික මහා අණු පටල තුළ එක්රැස්වීම
3. කුඩා කාබනික අණු බහු අවයවීකරණය වී මහා කාබනික අණු සෑදීම
4. නියුක්ලික්අම්ල ස්වයං ප්‍රතිවලිතය
5. සෛලවලට ප්‍රවේණි ගත වීමට හැකි වීම

10. පහත දී ඇති ප්‍රකාශ අතර ඇති සත්‍ය ප්‍රකාශය කුමක්ද?

1. ජීවිත කාලය මත පදනම්ව ජීවීන් වර්ග කලේ ඇරිස්ටෝටල්ය.
2. ස්වභාවික වර්ගීකරණ පද්ධති තම ජීවීකාණ්ඩ එකතු කරමින් පුළුල් කිරීම වඩාත් පහසුය.
3. අන්තරාභිජනනය මගින් ජනිතයන් බිහිකරන ජීවීන් කාණ්ඩය එකම විශේෂයකට අයත් වේ.
4. විද්‍යාත්මක නාමකරණයේදී සියළු පද ලතින් ආකාර විය යුතුය.
5. අනුක ජීව විද්‍යාත්මක දැනුම වර්ධනයත් සමඟ අධිරාජධානි තුනේ වර්ගීකරණ පද්ධතිය බිහිවිය.

11.

A B C D E

ඉහත ජීවීන් සම්බන්ධව දී ඇති ප්‍රකාශන හා ඒවා නිරූපණය කරන ජීවීන් නිවැරදිව දක්වා ඇති ප්‍රකාශය කුමක්ද?

1. හරිතලව දරයි - A, C හා E
2. සෛල බිත්ති සහිතයි - A, B හා C
3. කරදියේ ජීවත් වේ - A, D හා E
4. පියවි ඇසින් නිරීක්ෂණය කළ හැක - C, D හා E
5. පටක සහිතය විෂමපෝෂීන්ය - ADE

13. අභ්‍යන්තර සංසේචනය පෙන්වන, චලනාංගී, වරල් සහිත, ජම්බාලියක් සහිත සතුන් අයත් වන වර්ගයෙහි ලක්ෂණයක් නොවන්නේ පහත කවරක්ද?

1. ස්වසනයට ජලක්ලෝම දැරීම
2. දේහය රළු කොරල වලින් වැසී තිබීම.
3. උත්ප්ලාවකතාව පාලනයට වාතාශයක් දැමීම
4. කාටිලේජමය සැකිල්ල
5. අණ්ඩජ, ජලාබුජ හෝ අණ්ඩ ජලාබුජතාව දැරිය හැකිවීම

22 A/L අපි [papers group]

13. තණකොළ කපන යන්ත්‍රයකින් තණකොළ කැපූ විට පත්‍ර කැඩිබිඳී යයි. නැවත එම පත්‍ර සීඝ්‍ර වර්ධනයක් සඳහා කවරක් දායකවේද?
   1. අග්‍රස්ථ විභාජකය
   2. පාර්ශ්වික විභාජකය
   3. සනාල කැම්බියම
   4. අන්තරස්ථ විභාජක
   5. වල්ක කැම්බියම

14. ශාක මුල්වල පටක ව්‍යූහය සම්බන්ධව සත්‍ය වන්නේ පහත කවරක්ද?
   1. සෑම මූලකම අන්තශ්චර්මයට වහාම ඇතුලතින් පිහිටන පටකයට විභාජන හැකියාව ඇත.
   2. බාහිකය අරීය ජල පරිවහනයට දායකවන අතර එය මෘදුස්තර හා ස්ථූලකෝණාස්තර සෛල සහිතය.
   3. කැස්පාරිපටි මූලක අන්තශ්චර්මීය සෛලවල අරීය හා ඇතුලු බිත්තිවල ඇත.
   4. අපිචර්මීය සෛල අතර පාලක සෛල හා අන්තර් සෛලීය අවකාශ පිහිටයි.
   5. අන්තශ් චර්මයේ කැස්පාරිපටිය පෝෂකවල සිම්ප්ලාස්ට පරිවහනය ප්‍රේරණය කරයි.

15. වනාන්තරයක වියනට යටින් ඇති ශාක උසින් වර්ධනය වීමට ආසන්නම හේතුව වන්නේ,
   1. වියනට යටින් ඇති ශාක රතු ආලෝකය වැඩිපුර උරා ගැනීමයි
   2. වියන විසින් ධූර රතු ආලෝකය අවශෝෂණයකි.
   3. වියන හරහා ධූර රතු ආලෝක පමණක් ගමන් කිරීමයි.
   4. රතු ආලෝක කිරණ මගින් ශාකය උසින් වර්ධනයට වැඩි සම්පත් වැය කිරීමයි.
   5. වියන හරහා ධූර රතු ආලෝක කිරණ පමණක් ගමන් කර ශාකය උසින් වර්ධනයට වැඩි සම්පත් වැය කිරීමයි.

16. තේ වගාවේදී තේ ගස් කප්පාදු කිරීමක් සිදු කරයි. ඒ සම්බන්ධව පහත කවරක් එකඟ විය හැකිද?
   1. ඔක්සින සාන්ද්‍රණය වැඩිකර - අග්‍රස්ථ ප්‍රමුඛතාවය දිරි ගැන්වීමට
   2. එතිලීන් සාන්ද්‍ර වැඩිකර - පාර්ශවික අතු හට ගැන්වීම.
   3. ඔක්සීන් සාන්ද්‍රණය අඩුකර - පාර්ශවික අතුහට ගැන්වීම දිරිගැන්වීම
   4. සයිටොකයිනින් අඩුකර - අග්‍රස්ථ ප්‍රමුඛතාව නිශේධනය
   5. ගිබරලින් වැඩිකර - කඳන් දික්වීම උත්තේජනය

17. පහත කවර ඛනිජ මූලද්‍රව්‍ය ඌන වීම පිළිවෙලින් මේරූ පත්‍රවල හා ලපටි පත්‍රවල නාරටි අතර හරිතක්ෂය ඇතිවේද?
   1. N හා S
   2. Mg හා S
   3. Fe හා Mn
   4. Mg හා Mn
   5. N හා Fe

18. සම්බන්ධක පටක සම්බන්ධව අසත්‍ය ප්‍රකාශය තෝරන්න.
   1. සමහර සම්බන්ධක පටකවල පූරකය ඛනිජභවනය වී ඇත.
   2. ආතත්‍ය ශක්තිය අවශ්‍ය ස්ථානවල තන්තුමය සම්බන්ධක පටක පිහිටයි.
   3. සෑම සම්බන්ධ පටක වර්ගයකම පූරකය එම පටකයේ සෛල විසින් ස්‍රාවය කරයි
   4. සමහර සම්බන්ධක පටක ශක්ති ගබඩාවක් ලෙස ක්‍රියා කරයි.
   5. කාටිලේජ පූරකය ප්‍රෝටීන කාබෝහයිඩ්‍රේට සංකීර්ණයක් වේ.

19. අග්න්‍යාශික යුෂයේ අන්තර්ගත වන්නේ පහත ඒවායින් කවරක්ද?
   1. ඉන්සියුලින් හා ඩයිපෙප්ටයිඩේස්
   2. ලයිපේස් හා ග්ලූකගන්
   3. ට්‍රිප්සින් හා කයිමොට්‍රිප්සින්
   4. ඇමයිලේස් හා බයිකාබනේට් අයන
   5. ජලය හා ඇමයිනො පෙප්ටයිඩේස්

20. මිනිස් හෘදය පිළිබඳ නිවැරදි ප්‍රකාශය තෝරන්න.
   1. හෘදයේ අග්‍රස්ථයෙන් ප්‍රධාන රුධිර වාහිනි සම්බන්ධවේ.
   2. හෘද බිත්තියේ බාහිරම ස්ථරය මස්තුමය පෙරිකාඩියමයි.
   3. මයෝකාඩියම රුධිර වාහිනිවල ආස්තරණය සමඟ අඛණ්ඩව පවතී
   4. එන්ඩොකාඩියම සිනිඳු පටලයකි. සනාකාර අපිච්ඡද සෛල වේ.
   5. මයෝකාඩියම හරහා විශේෂිත වූ සන්නායක තන්තු ජාලයක් දිව යයි.

22 A/L අපි [papers group]

21. මිනිසාගේ වසා පද්ධතිය සහභාගි වන්නේ පහත කවරක් සඳහාද
    1. පටක සෛල කරා O_2 පරිවහනයට
    2. රුධිර පරිමාව පවත්වා ගැනීමට
    3. ආහාර මාර්ග පද්ධතියෙන් ඇමයිනෝ අම්ල අවශෝෂණයට
    4. මිනිසාට අවශ්‍ය සියළුම විටමින් වර්ග අවශෝෂණයට
    5. හෝර්මෝන පරිවහනයට

22. AB^- රුධිර සනය සහිත ස්ත්‍රියක් O^+ රුධිර සනය සහිත පිරිමියෙකු සමඟ සංවාසයකදී ලැබුණු පළමු දරුවා A^- විය. මෙම මුහුම් ඇසුරෙන් ඉදිරිපත් කර ඇති පහත කවරක් නිවැරදි නොවේද?
    1. මෙම පවුලේ ස්ත්‍රියගේ රක්තාණුවේ පෘෂ්ඨය මත රීසස් ප්‍රතිදේහ ජනක නැත.
    2. පුරුෂයා රීසස් සාධකය සම්බන්ධව විෂම යුග්මය විය යුතුය
    3. මෙම යුවලට A^+ දරුවෙක්ද ඇතිවීමේ සම්භාවිතාවයක් පවතී.
    4. ඇගේ දෙවෙනි දරුවාද A^+ වුවොත් භ්‍රෑණ විට එහි රක්තානු විනාශ වේ.
    5. රුධිර පාරවිලයනයකදී පුරුෂයාට O^+ රුධිරය ලබා දිය හැකිය.

23. වැඩිහිටි පුද්ගලයකුගේ පෙනහැලි පරිමා හා ධාරිතා කිහිපයක් පහත දැක්වේ.
- උදම් පරිමාව - 500ml
- ජීව ධාරිතාව - 4800 ml
- අතිරේක ප්‍රාශ්වාස වාත පරිමාව 1100 ml

මෙම පුද්ගලයාගේ කෘත්‍යානුගත ශේෂ ධාරිතාව වන්නේ පහත කවරක්ද?

1. 2800ml   2. 1200ml   3. 2300ml   4. 2800ml   5. 1600ml

24. ප්‍රතිශක්ති ප්‍රතිචාර දැක්වීමේදී වැදගත් රූපසටහනක් පහත දැක්වේ. මේ සම්බන්ධ ඉදිරිපත් කර ඇති අතර ප්‍රකාශ අතරින් නොගැලපෙන්නේ කවරක්ද?

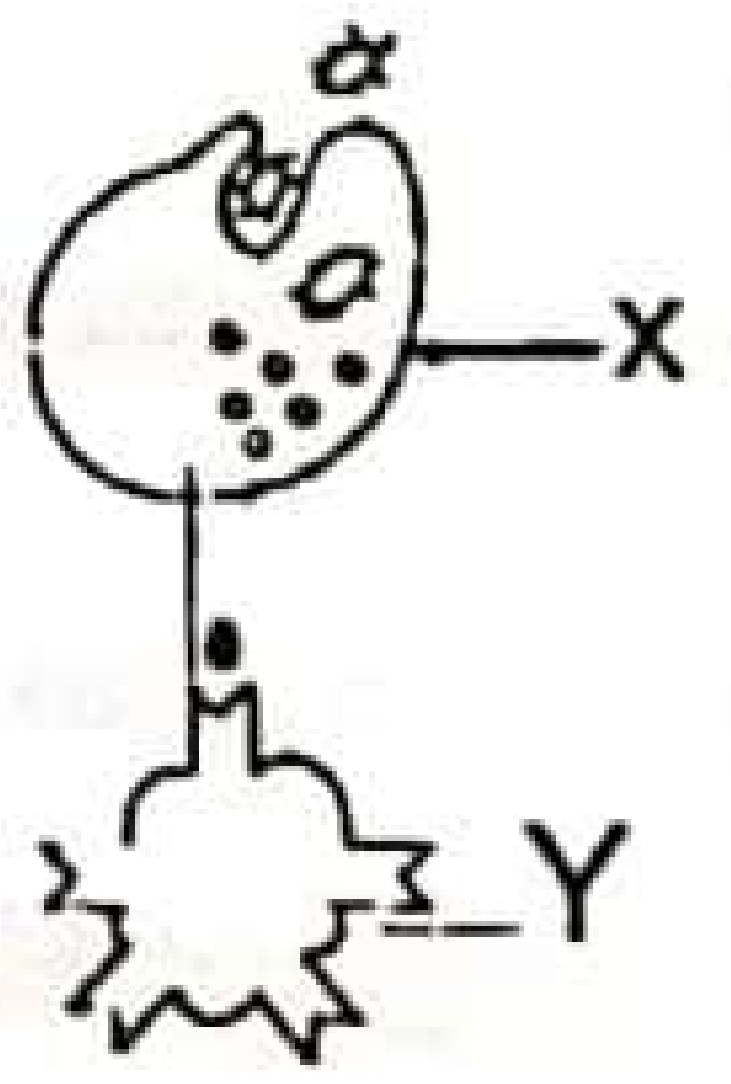

    1. X -මහා භක්ෂාණුවක් විය හැකිය.
    2. Y - T වසා සෛලයකි.
    3. Y හි කාරක ආකාරයකි. සයිටොටොක්සික් T සෛල
    4. සයිටොටොක්සික් T සෛල සෘජුවම ප්‍රතිදේහ ජනකයා මරා දමයි.
    5. Y වෙතට ඉදිරිපත් කරන්නේ ප්‍රතිදේහ ජනක කුඩා කොටස් ය.

25. පහත සඳහන් එක් එක් අවස්ථාවලදී ලබාදෙන ප්‍රතිශක්තිය නිවැරදිව දක්වා ඇත්තේ කවර ප්‍රතිචාරය මගින්ද?
    1. ක්ලෝණිකරණය කළ ප්‍රතිදේහ - ස්වභාවික පරිචිත අක්‍රිය ප්‍රතිශක්තිය
    2. B.C.G එන්නත - කෘත්‍රිම පරිචිත අක්‍රීය ප්‍රතිශක්තිය
    3. පැපොල රෝගයට ස්වභාවිකව ගොදුරු වීම- සහජ අභ්‍යන්තර ප්‍රතිශක්තිය
    4. භ්‍රෑණ විට කලල බන්ධය හරහා ප්‍රතිදේහ ලබාගැනීම- සහජ අභ්‍යන්තර ප්‍රතිශක්තිය
    5. නිමි මානව ප්‍රතිටෙටනස් ඉමියුනොග්ලොබියුලින් - කෘතිම පරිචිත අක්‍රිය ප්‍රතිශක්තිය

26. පහත සඳහන් සත්ත්වයා, ප්‍රධාන බාහිස්‍රාවී ඵලය සංකලනය ඇතුරින් නිවැරදි වන්නේ කුමක්ද?

1. මෝරා- ඇමෝනියා   2. ඉස්ගෙඩියා - යූරියා   3. ගෙම්බා - යූරික් අම්ලය
4. කාපයා - ඇමෝනියා   5. භෞමික ගොළුබෙල්ලා - යූරියා

27. සාමාන්‍ය සත්ත්ව යටතේ මිනිස් වෘක්කයේ විදූර සංවලිත නාලිකාවේ කෘත්‍ය පිළිබඳව වැරදි ප්‍රකාශය තෝරන්න.
    1. රුධිර පරිමාව යාමනයට දායක වේ.
    2. ADH ඇතිවිට ගුච්ජිකා පෙරණයේ ඇති ජලයෙන් වැඩි ප්‍රමාණයක් එය මගින් ප්‍රතිශෝෂණය කරයි.
    3. K^+ස්‍රාවය කරයි.
    4. රුධිර PH අගය යාමනයට දායක වේ.
    5. රුධිර පීඩනය යාමනයට දායක වේ.

22 A/L අපි [papers group]

28. ස්නායු පද්ධතියේ උදරීය, ස්නායු, රැහැන්, මොළය හා බාන්ධික ගැංග්ලියා දරන සතුන් සඳහා සුදුසු උදාහරණ සංකලනය අතර නිවැරදි වන්නේ කවරක්ද?

1. ප්ලැනේරියා - ගැඩවිලා
2. කුඩැල්ලා - පසැඟිල්ලා
3. කටුස්සා -ගොළුබෙල්ලා
4. මිනිසා - කැරපොත්තා
5. පත්තෑයා - වැරහැලි පනුවා

29. මිනිසකුගේ දේහය සිරස් අක්ෂයට ලම්බකව වැරෝලි සේතුව හරහා ගන්නා ලද මොළයේ හරස් කඩක අඩංගු වියහැකි මොළයේ කොටස පහත කවර ක්‍රියාව සඳහා වැදගත් වේද?

1. ඉරියව්ව හා සමබරතාව පවත්වා ගැනීම.
2. ශ්‍රවන ප්‍රතික සමායෝජනය
3. හෘදය හා රුධිර වාහිනි ක්‍රියාකාරීත්වය පාලනය
4. ආහාර රුචිය යාමනය
5. කංකාල පේශී චලන ආරම්භය හා පාලනය

30. මිනිසාගේ ප්‍රතිග්‍රාහක පිළිබඳ වැරදි වන්නේ පහත කවරක්ද?

1. මයිස්නර් දේහානු ස්කන්ධ මයිස්නර් ප්‍රතිග්‍රාහක වේ.
2. වේදනා ප්‍රතිග්‍රාහක විශේෂ ස්නායු අන්ත වේ.
3. යෂ්ඨී රාත්‍රී පෙනීමට වැදගත් වේ.
4. අර්ධ චක්‍රාකාර නාලවල රෝම සෛල මගින් ගුරුත්වය හඳුනා ගනී.
5. ආඝ්‍රාණ ප්‍රතිග්‍රාහක උත්තේජයක ශක්තිය පටල විභවයක් බවට පරිවර්තනය කරයි.

31. ස්ත්‍රීන්ගේ ප්‍රජනක චක්‍රය තුලදී.

1. අඛණ්ඩවම අණ්ඩ ජනනය සිදුවේ
2. වර්ධනය වන ස්‍යුනිකාවේ සෛල මගින් ප්‍රොජෙස්ටෙරොන් ස්‍රාවය කරයි.
3. ඊස්ට්‍රිඩියෝල් ඉහළ සාන්ද්‍රණය මගින් හයිපොතැලමස මගින් GnRH ස්‍රාවය වැඩි කරයි.
4. ස්ත්‍රිය ගැබ්ගත් විට ලූටියල් අවදිය අවසානයේදී පීතදේහය පිරිහී යයි.
5. ඩිම්බකෝෂ චක්‍රයේ ස්‍යුනිකා අවධිය ගර්භාෂයේ ස්‍රාවී අවධියට සම්බන්ධීකරණය වේ.

32. පූර්ව ගාත්‍රය සම්බන්ධව නොගැළපෙන වගන්තිය කුමක්ද?

1. ප්‍රගණ්ඩාස්ථිය තනි අස්ථියකි. එහි අවිදූරව ගෝලාකාර හිස වේ.
2. වැලමිට සන්ධිය හා මැනික් කටු සන්ධිය සෑදීමට අරාස්ථිය හා අන්වරාස්ථිය යන අස්ථි දෙකම දායක වේ.
3. අත්ල උත්කුබ්ජනයේදී ආරාස්ථිය හා අන්වරාස්ථිය එකිනෙකට සමාන්තරව පිහිටයි.
4. ඇඟිලි පුරුක් හා හස්තුර්චෝපරික් අතර සන්ධියෙන් ඇඟිලි සම්මිංජන පරිනයන අභිනයනය චලන දැක්විය හැකිය.
5. අරාස්ථිය හා අන්වරාස්ථි තන්තුමය සම්බන්ධයකින් එකිනෙකට සම්බන්ධ වී ඇත.

33. මව හා පියා සිස්ටික් ෆයිබ්‍රෝසිස් සඳහා වාහකයින් වන අතර ඔවුන්ට සිස්ටික් ෆයිබ්‍රෝසීස් ගැහැණු දරුවෙකු ලැබීමේ සම්භාවිතාව කොපමණද?

1. 1
2. 0.75
3. 0.5
4. 0.25
5. 0.125

34. ගහනයක එක්තරා ලක්ෂණයක ව්‍යාප්තිය ප්‍රස්තාර ගත කලවිට පහත ප්‍රස්තාරය ලැබුණි මෙවැන්නක් දක්නට ලැබෙන මෙන්ඩලීය අපගමනය කුමක්ද?

1. අසම්පූර්ණ ප්‍රමුඛතාව
2. බහුජාන ප්‍රවේණිය
3. බහු ඇලීලතාව
4. නිලීන අභිභවනය
5. සහ ප්‍රමුඛතාව

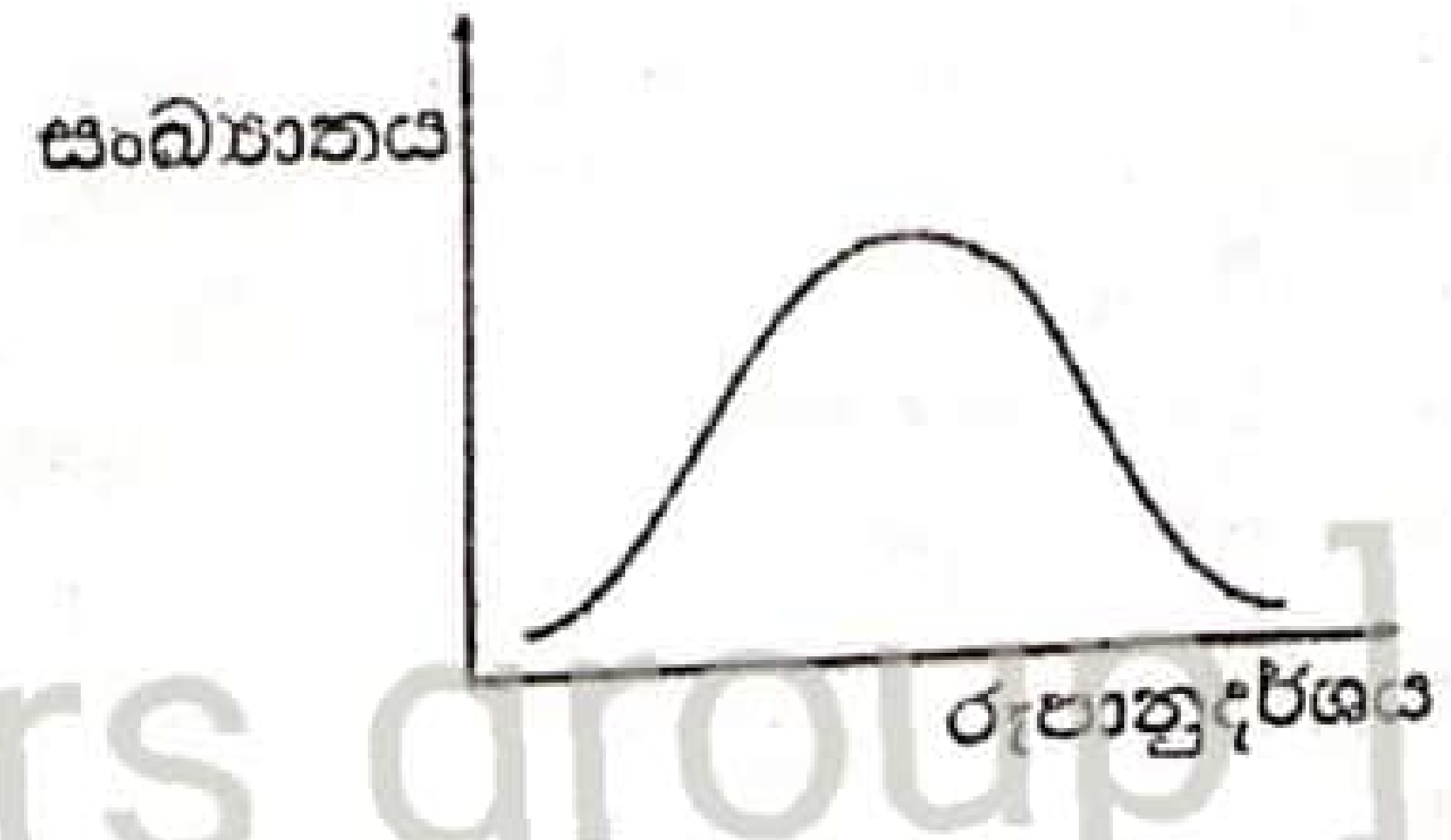

22 A/L අපි [papers group]

35. ජාන විකෘති සම්බන්ධව දී ඇති සටහන අධ්‍යනයකර නුසුදුසු වරණය තෝරන්න.

සාමාන්‍ය අනුක්‍රමය	විකෘති අනුක්‍රම		
	A	B	C
DNA මට්ටම TTC	TT [X]	[Y] TC	T [Z] C
MRNA මට්ටම AAG	AAA	UAG	ACG
ප්‍රෝටීන් මට්ටම [LYS]	[LYS]	[ ]	[Arg]

01. [X] වේ, T වේ. A යනු නිහඬ විකෘතියෙකි.
02. [Y], AT, වේ. B අපගතාර්ථක විකෘතියකි
03. [Z], G වේ C අපතතාර්ථක විකෘතියකි.
04. මේ සියල්ල ලක්ෂ විකෘති වේ.
05. මේවා සියල්ලම ආදේශ විකෘති වේ.

36. 13kbp – (kilo base pairs කිලෝ භෂ්ම යුගල්) සහිත DNA කැබැල්ලක් EcoRI හා Bam HI යන ඒ සීමා එන්සයිම යොදා ඛණ්ඩවලට කැපූ විට එක් එක් සීමා එන්සයිමයේ සාපේක්ෂව පිහිටීම හා ඒ ස්ථාන අතර දුර දැක්වෙන සටහනක් පහත දී ඇත.

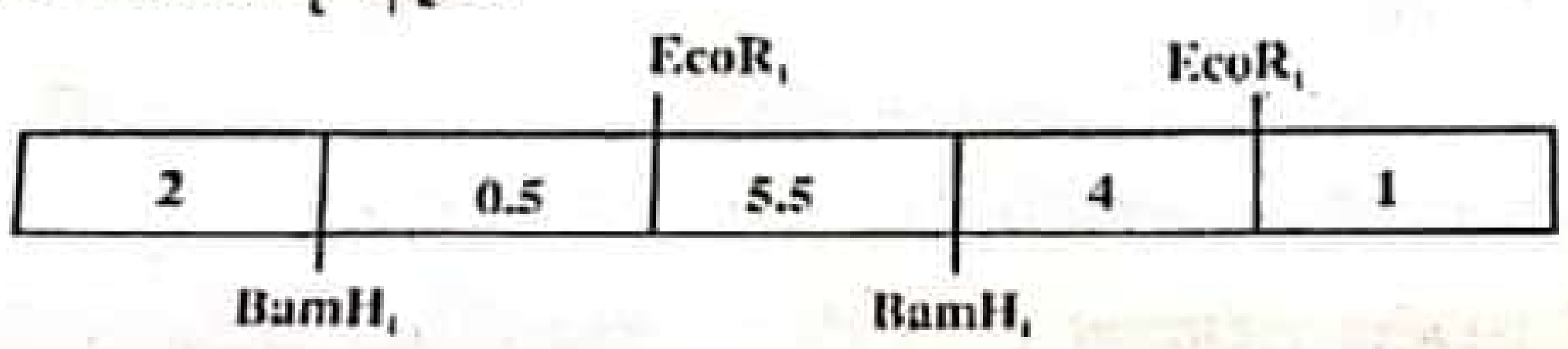

මේ සම්බන්ධයෙන් දී අති ප්‍රකාශ කිහිපයක් පහත දැක්වේ.

(A) $EcoR_I$ එන්සයිමය තනිව යොදා කැපූ විට ඛණ්ඩ 3ක් ලැබී ඇත.

(B) $EcoR_I$ යොදා කපා ගත් ඛණ්ඩ ඇගරොස් ජෙල විද්‍යුතා ගමනයට ලක් කළ විට හෙමින් ගමන් කරන ඛණ්ඩය 1Kbp දරයි.

(C) $BamH_I$ යොදා කැපූ විට DNA ඛණ්ඩ 4ක් ලැබී ඇත.

(D) $BamH_I$ යොදා කැපූවිට ලැබෙන ඛණ්ඩවලින් ඇගරොස් ජෙල විද්‍යුතාගමනයේදී වේගයෙන් ගමන් කරන්නේ 2Kph ඇති ඛණ්ඩයයි.

මේ අතරින් සත්‍ය වන්නේ,

1. ACD 2. AD 3. ABD 4. BC 5. CD

37. එකම පරිසර පද්ධතියක දක්නට නොලැබෙන සංකලනයට අතුලත් වර්ගය කුමක්ද?
1. *Dipterocarpus zeylanicus*, Sri lanka slender loris, *Masua ferrea*
2. *Colocasia, Aponogeton, Halodule*
3. *Terminalia chebula, Cymbopogon, nardus Terminalia bellirica*
4. *Cissus quadrangularis, Cassia auriculata,* ගිණි අන්දර
5. *Rhisphora sp, Avicennia marina, Acanthus illicifolius*

38. ජෛව විවිධත්වය සංරක්ෂණය සඳහා ජාතික වනෝද්‍යාන ඇති කරයි. මෙවැනි සංරක්ෂණ ක්‍රියාදාමයකදී අනුගමනය නොකරන්නේ පහත කවරක්ද?
1. විශාල ජීවී ගහනයක් ස්ථාපිත කිරීම
2. විශේෂයේ ආරක්ෂාව තහවුරු කිරීම
3. විශේෂයේ ප්‍රජනනය තහවුරු කිරීම
4. නොනැසී ජීවත්වන සේ රැක බලා ගැනීම
5. ප්‍රමාණවත් උචිත වාසස්ථානයක් ලබාදීම

39. පහත දී ඇති අර්ථ දැක්වීම් අතර නිවැරදි වන්නේ කවරක්ද?
1. ධාරකයා ආසාදිත ව්‍යාධිජනකයාට තම දේහය තුළ පමණක් ජීවත්වීමට හා ගුණනයට පහසුකම් සලසන ජීවියා
2. ආක්‍රමණතාව - ධාරක පටක ආක්‍රමණය කිරීමට ව්‍යාධිජනකයාට ඇති හැකියාව

22 A/L අපි [papers group]

3. ජෛව ප්‍රතිකර්මනය - පරිසර දූෂක ඉවත්කිරීමට ජීවීන් භාවිතා කිරීමේ තාක්‍ෂණය
4. නයිට්‍රීකරණය- ඇමෝනියම් අයනවල ඇති නයිට්‍රජන් නයිට්‍රේට් නිපදවීමට ඔක්සිකරණය වීමේ ක්‍රියාවලියයි.
5. ආහාර නරක් වීම- ආහාරවල ක්‍ෂුද්‍ර ජීවීන් වර්ධනය වීම නිසා පරිභෝජනයට නුසුදුසු තත්ත්වයට පත්වීම.

40. ගෘහස්ථ ජලාලයක් පවත්වා ගැනීමේදී, එය නඩත්තු කිරීමේදී නොකළයුතු ක්‍රියාවක් වන්නේ පහත කවරක්ද?
1. පෝෂණීය සමබල ආහාරයක්- දෛනිකව ලබාදීම
2. විදුරු පෘෂ්ඨ මත තැම්පත් ඇල්ගී- සතියකට වරක් සූරා දැමීම
3. ආලෝක ප්‍රභවයේ අන්ත පරීක්‍ෂා කිරීම - මාසිකව
4. මත්ස්‍යයන්ගේ සෞඛ්‍යය තත්ත්වය දෛනිකව පරීක්‍ෂා කිරීම
5. ශාකවල මැරුණු කොටස් ඉවත් කිරීම- මාසිකව

* 41 සිට 50 තෙක් ප්‍රශ්න සඳහා උපදෙස් පහත දැක්වේ.

1. A, B, D නිවරදිව නම - පිළිතුර 1 ද
2. A, C, D නිවරදි නම් - පිළිතුර 2 ද
3. A, B ප්‍රතිචාර නිවරදි නම් - පිළිතුර 3 ද
4. C, D ප්‍රතිචාර නිවරදි නම් - පිළිතුර 4 ද
5. වෙනත් ප්‍රතිචාරයක් හෝ ප්‍රතිචාර සංයෝජනයක් නිවරදි නම් 5 ද පිළිතුර ලෙස සලකන්න.

41. එන්සයිම සම්බන්ධව පහත ප්‍රකාශ අතරින් නිවරදි වන්නේ කවරක්/ කවර ඒවාද?
A උෂ්ණත්වය මගින් එම එන්සයිමයේ සක්‍රීය ස්ථානයේ ගැටුම් සංඛ්‍යාව වැඩි කිරීම පමණක් සිදු කරයි.
B සහයෝගිතාව යනු අලොස්ටරික සක්‍රීය කාරකයකි.
C එන්සයිමයක් යම් PH පරාසයක් තුල ඉතා කාර්යක්‍ෂම ක්‍රියාකරයි.
D බොහෝ තරඟකාරී නිශේධක ප්‍රත්‍යාවර්ත වේ.
E ඇලොස්ටරික යාමනය කෙරෙහි උෂ්ණත්වය බල නොපායි.

42. දිලීර හා ශාක ජීවන චක්‍රවල අනුනනය හා ඌනනය පිළිබඳව පහත ප්‍රකාශ අතර නිවැරදි වන්නේ කවරක්/ කවර ඒවාද?
A *Mucor* සංයෝගානුව තුල ඌනන විභාජනය සිදුවේ.
B සපුෂ්ප ශාකවල පුං ජන්මාණු සෑදීමේදී අනුනන විභාජනය සිදුවේ.
C *Selaginella* මහා බීජාණු ප්‍රරෝහනයේදී ඌනන විභාජනය සිදුවේ.
D සපුෂ්ප ශාකවල භ්‍රෑණ පෝෂය සෑදීමේදී අනුනන විභාජනය සිදු වේ.
E *Cycas* ඩිම්බය තුළ ඌනන විභාජනය සිදු නොවේ.

43. ශාක වර්ධක යාමක වල ප්‍රතිචාර සම්බන්ධව එකඟ විය හැකි වන්නේ පහත කවරක්/ කවර ඒවාද?1
A ඇබ්සසික් අම්ලය නියං ආතතියට මුහුණ දීමට වැදගත් වේ.
B එතිලීන් හා ඔක්සීන් පත්‍ර ඡේදනයකදී එකිනෙකට ප්‍රතිවිරුද්ධ ලෙස ක්‍රියා කරයි.
C ඔක්සීන් මගින් ත්‍රිත්ව ප්‍රතිචාර දිරිගන්වයි.
D ගිබරලින් හා සයිටොකයිනීන් අග්‍රස්ථ ප්‍රමුඛතාව ඇති කිරීමේදී එකිනෙකට ප්‍රතිවිරුද්ධව ප්‍රතික්‍රියා කරයි.
E බීජ ප්‍රරෝහනය උත්තේජනය ගිබරලින් මගින් පමණක් සිදු කරයි.

44. මිනිසාගේ මධ්‍ය ස්නායු පද්ධතියෙන් ඉවතට ආවේග සම්ප්‍රේෂණය කිරීම සම්බන්ධව පහත කවරක්/ කවර ඒවා වැරදිද?
A අපවාහි නියුරෝන → චාලක පද්ධතිය → කංකාල පේෂි
B අපවාහි නියුරෝන → චාලක පද්ධතිය → ග්‍රන්ථි
C අපවාහි නියුරෝන → ස්වයං සාධක පද්ධතිය → ග්‍රන්ථි
D අභිවාහි නියුරෝන → ස්වයං සාධක පද්ධතිය → හෘද් පේෂි
E අභිවාහි නියුරෝන → චාලක පද්ධතිය → සිනිඳු පේශි

45. මවගේ ගර්භාෂය තුළ ඇති 30cm පමණ දිග භ්‍රෑණයක දැකිය හැක්කේ පහත කවරක්ද

22 A/L අපි [papers group]

A ඉතා ක්‍රියාශීලී භ්‍රෑණය

B හෘද ස්පන්දනය සිදුවීම

C මානව ලක්ෂණ දර්ශනය නොවීම

D වෘෂණ, වෘෂණ කෝෂ තුලට අවරෝහනය

E භ්‍රෑණයේ වේගවත් වර්ධනය

46. ජාන ක්ලෝනකරණය සම්බන්ධයෙන් වැරදි ප්‍රකාශ/ ප්‍රකාශය තෝරන්න.

A ඇතැම් අවස්ථාවලදී ප්ලාස්මිඩ වාහකයාගේ ජාන ඉවත්කරයි.

B යීස්ට් ප්ලාස්මිඩ සුන්‍යෂ්ටික සෛල සඳහා වාහකයා ලෙස යොදා ගැනීම වඩාත් යෝග්‍ය වේ.

C ප්ලාස්මීය වාහකයාගේ බහුවිධ ක්ලෝනකරණ ස්ථාන වලදී ඕනෑම සීමා එන්සයිමයක් යොදා ප්ලාස්මිඩය කැපිය හැකිය

D මෙහිදී DNA අනුවක කොටසක පිටපත් මිලියන ගණනක් නාලාස්ථව ලබාගනී.

E පරිණාමනය වූ සෛල පරිණාමනය නොවූ සෛල වලින් හඳුනා ගැනීමට සලකුණු කළ ජානයක් භාවිතා වේ.

47. බහුගුණකතාව

A ප්‍රවේණි විද්‍යාත්මක මූලධර්ම මත පදනම් වූ අභිජනන ක්‍රමයකි.

B ද්විගුණතාවයට වඩා අඩු වර්ධන වේගයක් සහිතය

C විෂම ගුණකතාවය අඩු කරයි.

D 'ස්වාරක්ෂණ' කෘත්‍යයක් කළ හැකිය

E ප්‍රවේණික අසමතුලිත බවක් ඇති කරයි.

48. ගෝලීය උණුසුම වැඩි වීම සම්බන්ධව එකඟ විය හැකි ප්‍රකාශ/ ප්‍රකාශය තෝරන්න.

A කාබනික ද්‍රව්‍ය දහනය ප්‍රධාන ක්‍රියාවක් වේ.

B නයිට්‍රික් අම්ල නිෂ්පාදනයේදී සෑදෙන NO මේ සඳහා ඉහල විභවයක් ඇත.

C ඉහළ වායුගෝලයේ අවලම්භනය වී ඇති කළු කාබන් ද හේතුවේ.

D ආහාර නිෂ්පාදනය පහල බැසීම සිදුවේ.

E කොරල් විරංජනය හා හායනයට හේතුවේ

49. මානව දේහයේ ජීවත්වන ක්ෂුද්‍ර ජීවීන් සම්බන්ධව සත්‍ය ප්‍රකාශ/ ප්‍රකාශය කවරක්ද?

A භ්‍රෑණ ආහාර මාර්ගයේ *E.coli* ජීවත් වේ.

B මිනිස් සිරුරේ සෑම ස්ථානයකම ජෛව සමුදායේ ක්ෂුද්‍ර ජීවීන් ජීවත් වේ.

C මොවුන් අවස්ථාවාදී ව්‍යාධිජනකයන් විය හැක.

D මිනිස් සිරුරේ ඇති සෛල සංඛ්‍යාවට වඩා දස ගුණයකින් ජෛව සමුදාය පවතී.

E මහා අන්ත්‍රයේ වෙසෙන *E-coli* විටමින් K, B හා D සංශ්ලේෂණය කරයි.

50. වෛද්‍ය විද්‍යාවේදී නැනෝ තාක්ෂණය භාවිතයන් වන්නේ,

A පිළිකා සඳහා ප්‍රතිකාර කිරීමට

B දියවැඩියාවට ප්‍රතිකාර කිරීම.

C හානි පටක අළුත් වැඩියාවට

D ලියුකේමියා රෝගීන්ගේ ඇට මිදුළු ප්‍රතිපූර්ණය සඳහා

E වේදනාවට ප්‍රතිකාර කිරීම

22 A/L අපි [papers group]